7. December – Chodenie do kruhu

Kai naozaj nevie, čo by si na Vianoce Alic priala. „Veď všetko už má!“ pomyslel si. Kai to ale nevzdáva a išiel do najväčšieho nákupného centra aké vedel nájsť. Tam určite niečo nájde. Ako tak niekoľko hodín chodí po nákupnom centre, všimol si, že tú istú drogériu prešiel už trikrát ale ešte ani zďaleka neprešiel okolo každého obchodu. Má už málo času a potrebuje prejsť naozaj všetko čo najrýchlejšie a najoptimálnejšie. Pomôžte mu nakresliť trasu, ktorú má prejsť…

<u>Zadanie:</u> Nakreslite jednu slučku cez všetky biele políčka. Slučka vždy pokračuje do políčka, ktoré je susedné stranou s predošlým. *Malé písmenká sú iba na získanie odpovede, počas riešenia ich ignorujte.* Pozrite si aj názorný príklad:



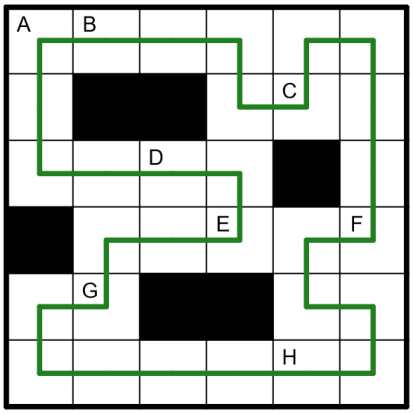



Ako odpoveď vypíšte písmenká v poradí, akom idú na slučke. Neoddeľujte ich medzerami alebo inými oddeľovačmi. Začnite v ľavom hornom rohu a pokračujte smerom doprava. Prvé dve písmená vašej odpovede teda budú ***AB****. V názornom príklade by ste odovzdali ABCFHGED.*